Adı ve soyadı: ..... Puanı: .....

Sınıf ve no: ..... / .....

1.Soru	2.Soru	3.Soru	4.Soru	5.Soru	6.Soru	7.Soru	8.Soru	9.Soru	10.Soru	Aldığı Puan :

01.

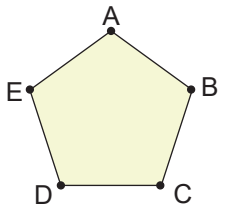

Yukarıdaki çokgenin köşelerini yazınız.

02.

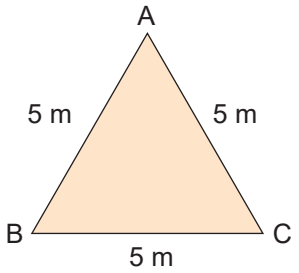

şekildeki ABC üçgeninin kenarlarına göre çeşidini yazınız.

03.

Yukarıdaki dikdörtgenin köşegenlerinden birini çiziniz.

04.

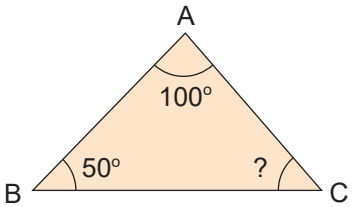

şekildeki ABC üçgeninin C açısının ölçüsü kaç derecedir?

05. Aşağıdaki grafikte bir okuldaki 5.Sınıf şubelerinin mevcutları gösterilmiştir.

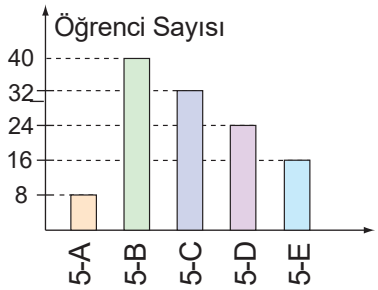

Grafiğe göre hangi sınıfın öğrenci sayısı daha azdır?

Her sorunun doğru cevabı 10 puan, sınav süresi 40 dakikadır.

Arka sayfaya geçiniz.

06. Aşağıdaki tabloda bir kafede satılan ürünler ve fiyatları gösterilmiştir.

Kahve	Çay	Poğaça	Simit
50 TL	10 TL	15 TL	20 TL

Tabloya göre aşağıdaki soruları cevaplayınız.

a) Bir çay kaç liradır?

b) Bir simit kaç liradır?

07. **1 metre kaç santimetredir?**

08. Aşağıda ABC üçgeni ve kenar uzunlukları verilmiştir.

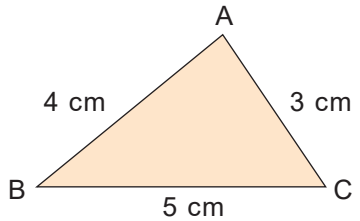

Buna göre, ABC üçgeninin çevresi kaç santimetredir?

09. **Aşağıdaki soruları cevaplayınız.**

a) Bir gün kaç saattir?

b) Bir saat kaç dakikadır?

10.

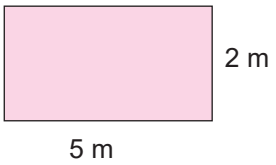

Yukarıdaki dikdörtgenin alanı kaç metrekaredir?

Video çözümleri için QR'kodu okutunuz.